1 Entourez 10 cœurs :



3 Dessinez 12 fleurs :

8 Combien de jetons Picbille doit-il apporter à Minibille ?

10 Écrivez en chiffres :

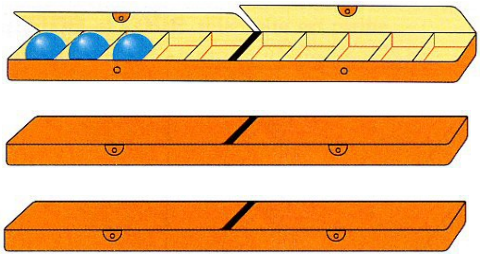

11 Dessinez comme Picbille :

27

12 Écrivez en lettres :

8

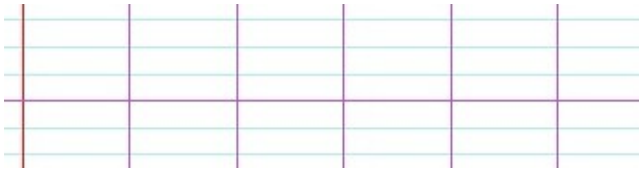

À imprimer sur feuille orange

TitLine à l'école

19 **Écrivez le nombre d'étoiles :**



20 **Dessinez 14 carrés :**

21 **Combien de jetons Picbille doit-il apporter à Minibille ?**

30 **Écrivez en chiffres :**

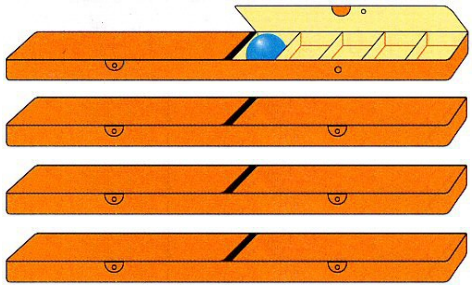

31 **Dessinez comme Picbille :**

19

40 **Écrivez en lettres :**

7

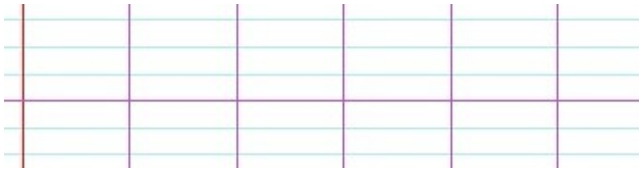

À imprimer sur feuille orange

TitLine à l'école

49 Écrivez le nombre d'étoiles :

50 Dessinez 15 ronds :

51 Combien de jetons Picbille doit-il apporter à Minibille ?

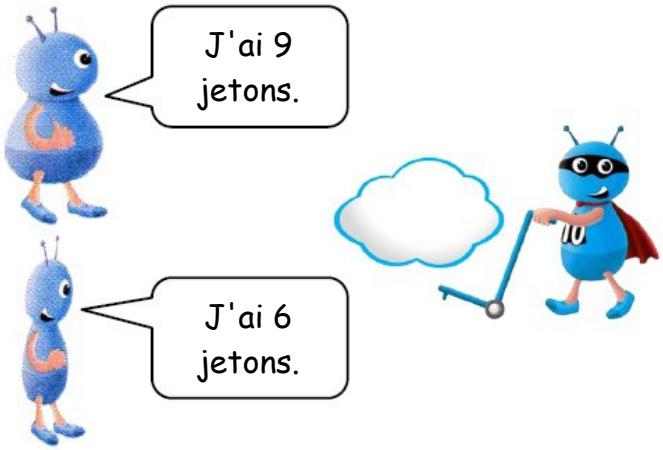

52 Écrivez en chiffres :



53 Coloriez le bon chemin (2 en 2)

7	9	9	11	17	19	22	8
5	11	10	7	26	25	9	11
9	13	15	17	6	22	13	18
6	5	8	19	28	4	17	2
27	25	23	21	10	9	5	4
29	9	7	18	12	7	6	1
31	9	11	41	43	45	47	49
33	35	37	39	26	8	3	51

54 Écrivez en lettres :

9

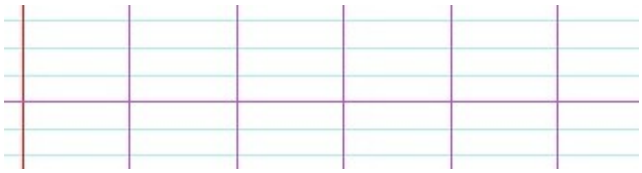

À imprimer sur feuille orange

TitLine à l'école

55 Coloriez 9 cœurs :



56 Dessinez 16 flèches :

57 Combien de jetons Picbille doit-il apporter à Minibille ?

58 Écrivez en chiffres :

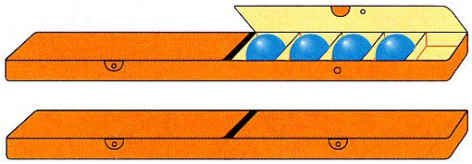

59 Dessinez comme Picbille :

38

60 Écrivez en lettres :

4

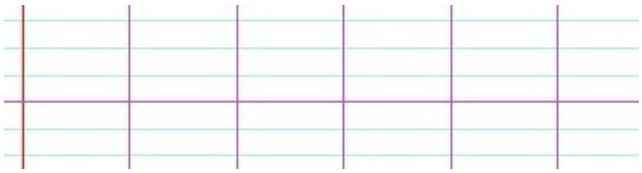

À imprimer sur feuille orange

TitLine à l'école

63 **Rangez ces nombres du plus petit au plus grand :**

42 8 30 24

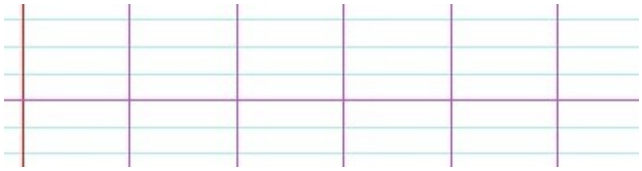

64 **Complétez la suite des nombres :**

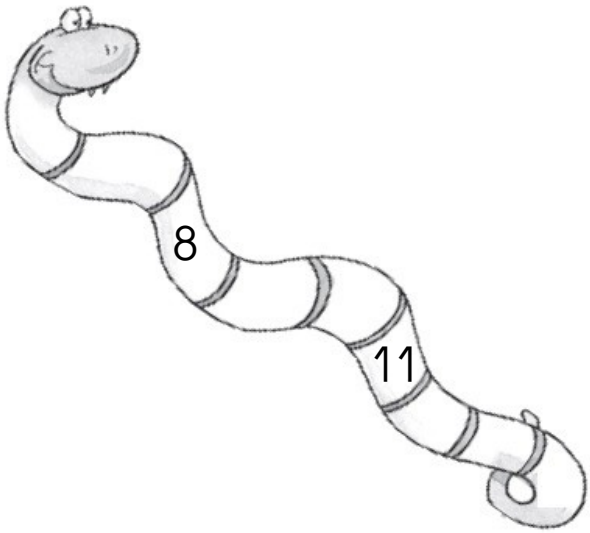

65 **Combien Patti a-t-elle d'euros ?**

Patti a euros.

66 **Combien y a-t-il de jetons ? Faites des paquets de 10 :**



67 **Dessinez avec le moins de billets et de pièces :**

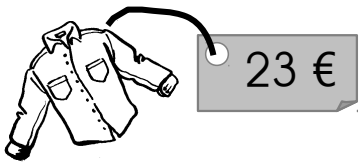

68 **Qui suis-je ?**

Je suis entre 13 et 15.



TitLine à l'école

À imprimer sur feuille orange

73 Coloriez le bon chemin (2 en 2)

23	25	27	32	35	37	39	41
5	21	29	31	33	34	9	43
39	33	5	37	6	22	13	45
36	5	58	55	53	51	49	47
7	15	53	57	10	69	5	4
29	9	67	59	12	7	66	1
11	9	11	61	63	65	64	9
33	3	7	9	26	67	69	71

74 Complétez la suite des nombres :

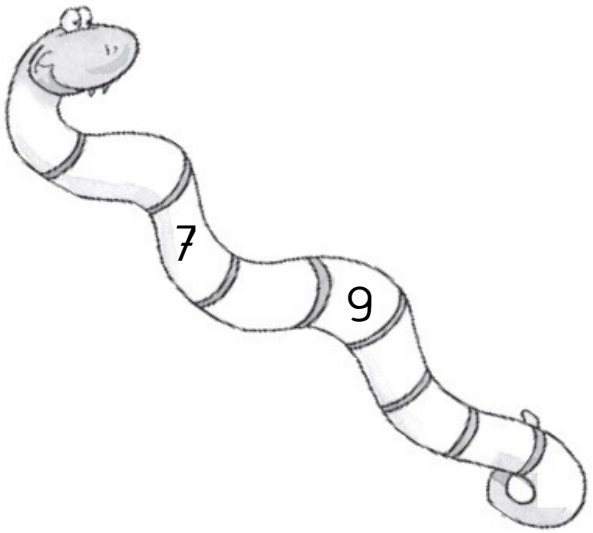

75 Combien Patti a-t-elle d'euros ?

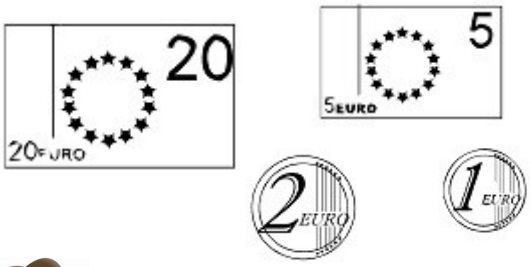

Patti a euros.

76 Rangez ces nombres du plus petit au plus grand :

28

12

9

35

77 Dessinez avec le moins de billets et de pièces :



78 Qui suis-je ?

Je suis entre 14 et 16.



TitLine à l'école

À imprimer sur feuille orange

83 **Rangez ces nombres du plus petit au plus grand :**

15 46 21 7

84 **Complétez la suite des nombres :**

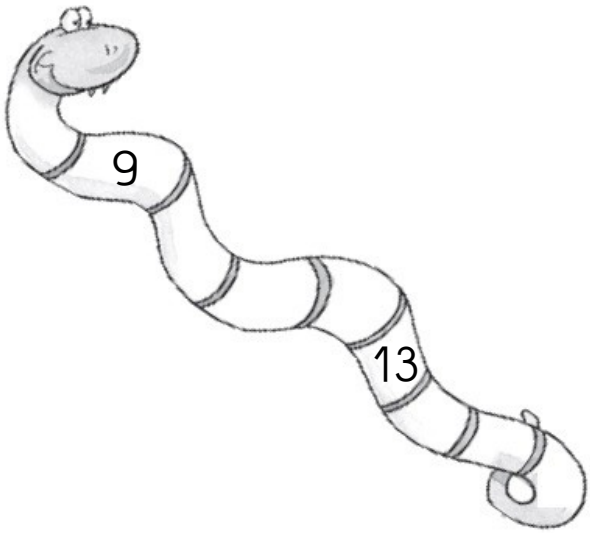

85 **Combien Patti a-t-elle d'euros ?**

Patti a euros.

86 **Dessinez comme Picbille :**

46

87 **Dessinez avec le moins de billets et de pièces :**

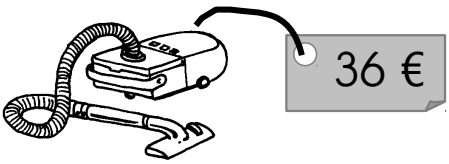

88 **Qui suis-je ?**

Je suis entre 15 et 17.

TitLine à l'école

À imprimer sur feuille orange

92 **Rangez ces nombres du plus petit au plus grand :**

40 8 39 27

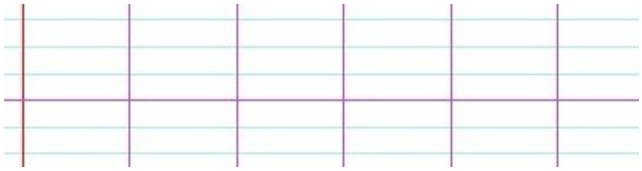

94 **Complétez la suite des nombres :**

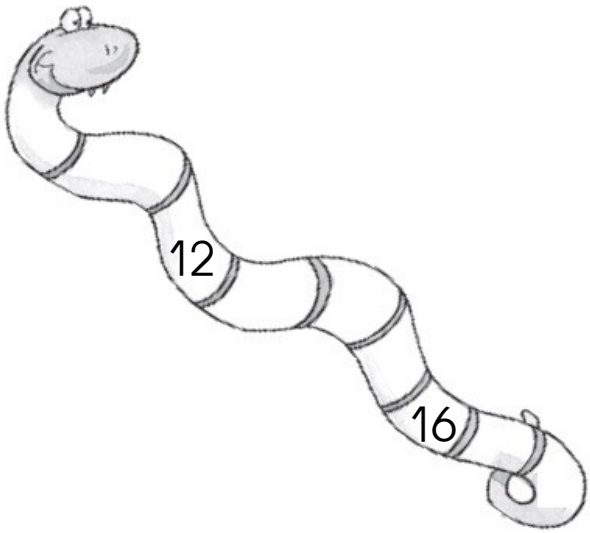

97 **Combien Patti a-t-elle d'euros ?**

Patti a euros.

99 **Combien y a-t-il de perles dans ce collier ?**

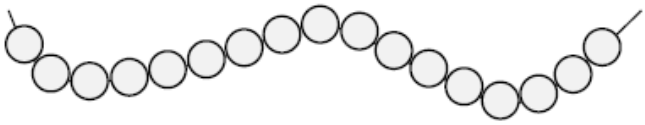

Il y a perles dans ce collier.

TitLine à l'école

À imprimer sur feuille orange

34 Coloriez le bon chemin (2 en 2)

4	7	9	11	17	19	22	8
6	8	10	12	14	25	9	11
9	7	13	15	16	22	13	18
6	5	8	3	18	4	17	2
10	4	2	16	20	9	5	4
1	9	7	18	22	7	6	1
14	9	11	8	24	12	14	8
20	13	9	5	26	28	30	32

35 Qui suis-je ?

Mon chiffre des unités est 4,
mon chiffre des dizaines est 1.

37 Combien Dédé a-t-il d'euros ?

Dédé a euros.

38 Qui suis-je ?

Mon chiffre des unités est 6,
mon chiffre des dizaines est 2.

44 Qui suis-je ?

Mon chiffre des unités est 9,
mon chiffre des dizaines est 3.

47 Qui suis-je ?

Mon chiffre des unités est 7,
mon chiffre des dizaines est 4.

À imprimer sur feuille jaune

TitLine à l'école

2 **Calculez :**

10 + 10 + 10 + 10 + 6

= ..... + ...

=

4 **Avec 3 paquets de 5 bonbons, combien y a-t-il de bonbons ?**

Dessinez :

Il y a bonbons.

5 **Combien manque-t-il de carottes ?**

Il y a ..... lapins,

mais il n'y a que ..... carottes.

..... – ..... = ...

Il manque carottes.

6 **Écrivez en chiffres :**

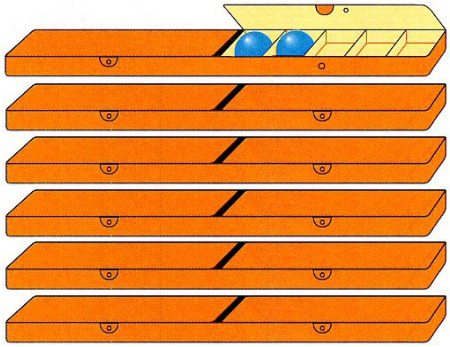

7 **Dessinez comme Picbille :**

64

9 **Combien y a-t-il de jetons ? Faites des paquets de 10 :**



TitLine à l'école

À imprimer sur feuille bleue

13 **Calculez :**

10 + 10 + 10 + 5

= ..... + ...

=

14 **Avec 4 bouquets de 10 fleurs, combien y a-t-il de fleurs ?**

Dessinez :

Il y a fleurs.

15 **Combien manque-t-il de coquetiers ?**



Il y a ..... œufs,

mais il n'y a que ..... coquetiers.

..... – ..... = ...

Il manque coquetiers.

16 **Écrivez en chiffres :**

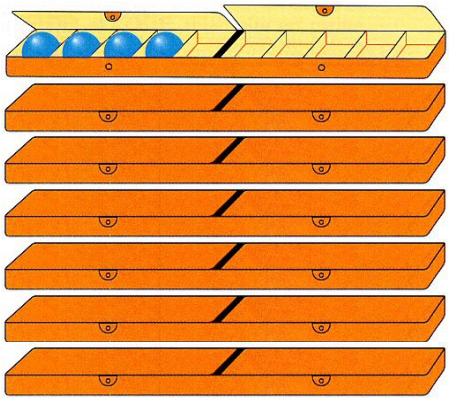

17 **Dessinez comme Picbille :**

53

18 **Combien y a-t-il d'étoiles ? Faites des paquets de 10 :**

À imprimer sur feuille bleue

TitLine à l'école

22 **Calculez :**

10 + 10 + 10 + 10 + 10 + 2

= ..... + ...

=

23 **Avec 6 sachets de 2 images, combien y a-t-il d'images ?**

Dessinez :

Il y a images.

24 **Combien manque-t-il de bouchons ?**



Il y a ..... bouteilles,

mais il n'y a que ..... bouchons.

..... – ..... = ...

Il manque bouchons.

25 **Écrivez en chiffres :**

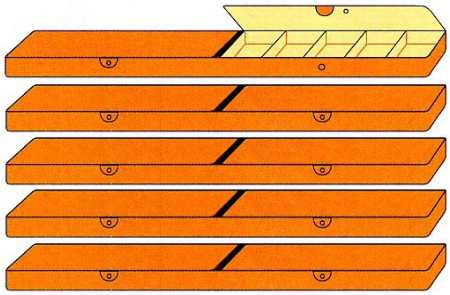

26 **Dessinez comme Picbille :**

89

27 **Combien y a-t-il de cœurs ? Faites des paquets de 10 :**



À imprimer sur feuille bleue

TitLine à l'école

28 **Calculez :**

10 + 10 + 10 + 10 + 3

= ..... + ...

=

29 **Avec 4 équipes de 5 enfants, combien y a-t-il d'enfants ?**

Dessinez :

Il y a enfants.

32 **Combien manque-t-il de cartables ?**

Il y a ..... élèves,

mais il n'y a que ..... cartables.

..... – ..... = ...

Il manque cartables.

33 **Écrivez en chiffres :**



36 **Dessinez comme Picbille :**

78

39 **Combien y a-t-il de lunes ?**

Faites des paquets de 10 :



À imprimer sur feuille bleue

TitLine à l'école

42 **Combien y a-t-il d'allumettes ?**

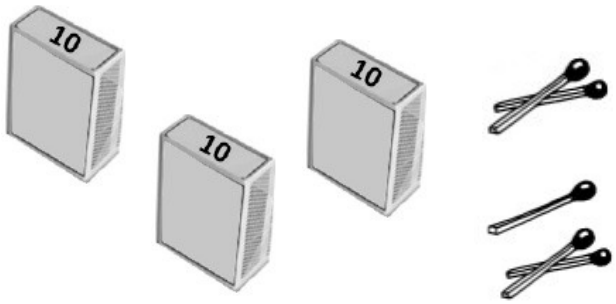

Il y a ..... allumettes.

43 **Dédé a 12 billes. Patti en a 6 de plus que lui.**
Combien de billes a Patti ?

Patti a ..... billes.

46 **Combien Patti a-t-elle d'euros ?**

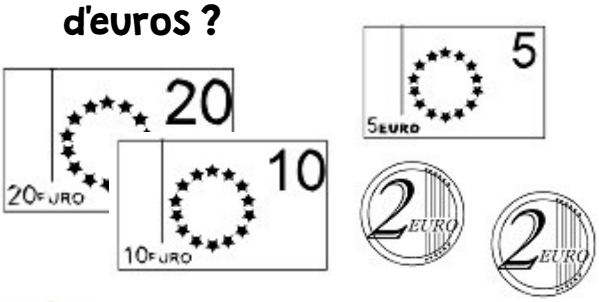

Patti a ..... euros.

49 **Complétez la suite des nombres (2 en 2) :**

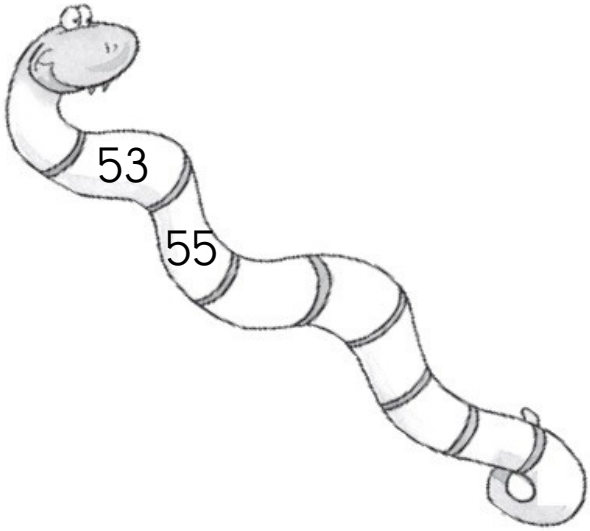

61 **Dessinez avec le moins de billets et de pièces :**

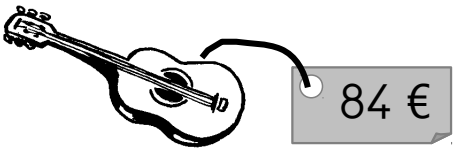

62 **Calculez la somme en dessinant comme Picbille :**

32 + 45 = ...

TitLine à l'école

À imprimer sur feuille bleue

69 **Combien y a-t-il d'allumettes ?**

Il y a allumettes.

70 **Dédé a 20 billes. Mais il en perd 5 en jouant avec Patti.**

Combien de billes reste-t-il à Dédé ?

Il lui reste billes.

71 **Combien Patti a-t-elle d'euros ?**

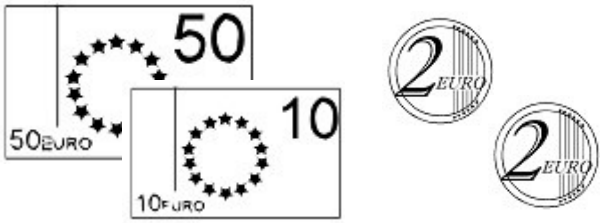

Patti a euros.

72 **Complétez la suite des nombres (2 en 2) :**

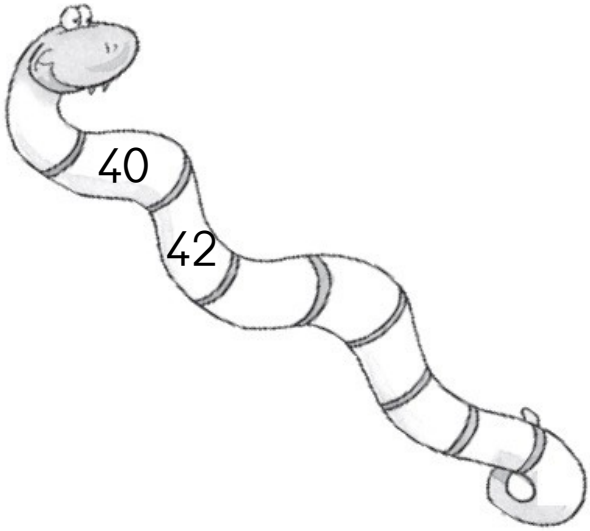

48 **Dessinez avec le moins de billets et de pièces :**



80 **Calculez la somme en dessinant comme Picbille :**

26 + 26 = ...

À imprimer sur feuille bleue

TitLine à l'école

81 **Combien y a-t-il d'allumettes ?**

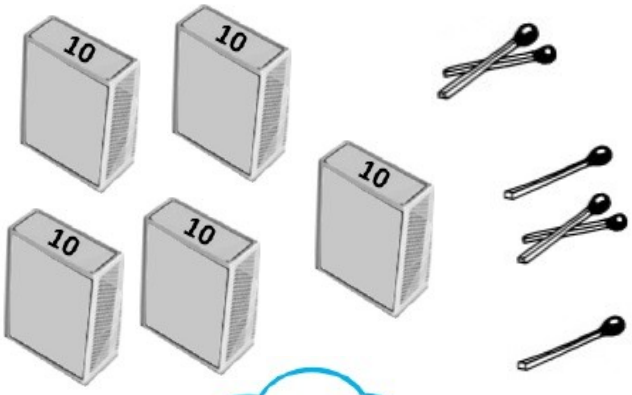

Il y a ..... allumettes.

82 **Dédé a 2 sacs de 10 billes.**
Patti a 5 sacs de 5 billes.
Qui a le plus de billes ?

C'est _____ qui a le plus de billes.

89 **Combien Patti a-t-elle d'euros ?**

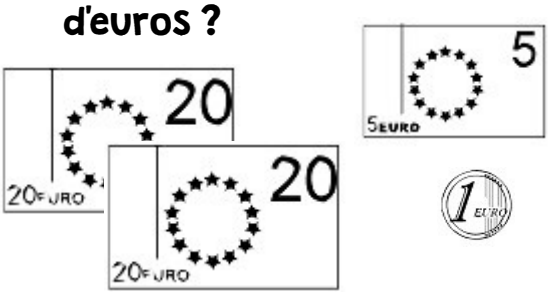

Patti a ..... euros.

90 **Complétez la suite des nombres (2 en 2) :**

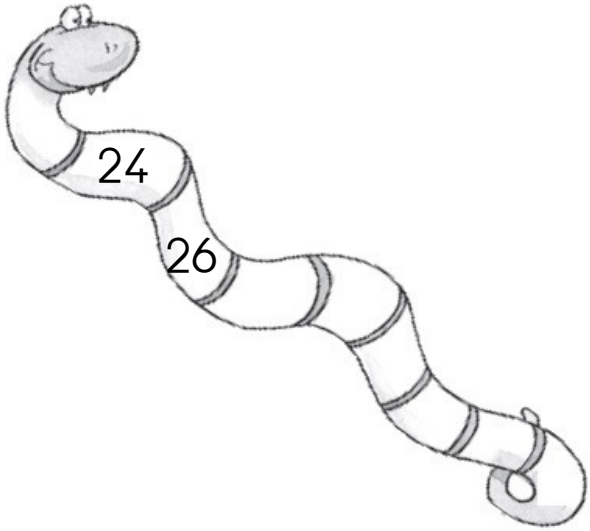

91 **Dessinez avec le moins de billets et de pièces :**



93 **Calculez la somme en dessinant comme Picbille :**

18 + 35 = ...

À imprimer sur feuille bleue

TitLine à l'école

95 **Combien y a-t-il d'allumettes ?**



Il y a ..... allumettes.

96 **Dédé et Patti ont 18 billes. Ils veulent se les partager.**

Combien de billes auront-ils chacun ?

Ils auront ..... billes.

98 **Combien Patti a-t-elle d'euros ?**

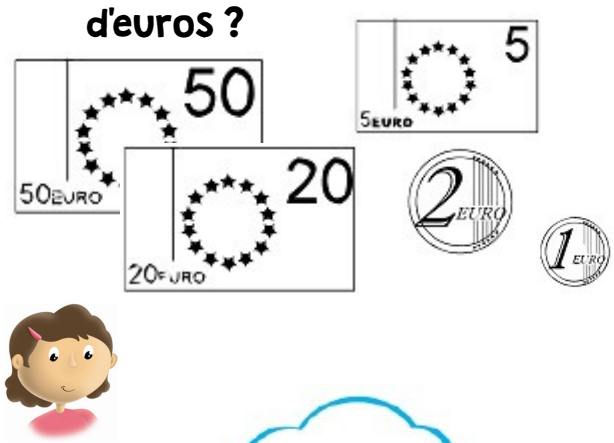

Patti a ..... euros.

100 **Coloriez le bon chemin** (5 en 5)

5	9	14	11	17	19	22	8
10	8	10	14	14	25	39	11
15	21	13	15	16	22	13	18
20	25	30	34	48	4	17	2
10	4	35	16	20	59	50	4
50	45	40	48	22	7	60	1
55	9	11	79	24	88	14	8
60	65	70	75	80	85	90	95

45 **Dessinez avec le moins de billets et de pièces :**



79 **Calculez la somme en dessinant comme Picbille :**

38 + 32 = ...

À imprimer sur feuille bleue

TitLine à l'école